Kolkata Police (KP) Constable & Lady Constable

Final Written Exam 2024

Question Paper

(Bengali & English)

Exam Held: 29 Nov 2026

Official Question Paper | Bilingual | Original Layout

Practice with the real paper. Download more PYPs on the Adda247 App.

Get All Exam PYPs on
Adda247 App

GET IT ON Google Play

Test Prime By Adda247

ALL EXAMS, ONE SUBSCRIPTION

Test. Analyze. Improve. Repeat.

Don't just prepare. Perform.

Test Prime – built only for mock tests.



1,50,000+ Mock Tests

25,000+ Previous Year Papers

800+ Exam Covered

500% Refund on Selection

5 lakh+ Free Quizzes

Daily Free PDFs

Top Alerts Stay Updated

WHY TEST PRIME?

- Multilingual
- Detailed Solution
- Strong and Weak Areas
- All India Rankings

- Safe & Reliable
- Trusted by Lakhs of Aspirants
- Your Success, Our Mission

DOWNLOAD TEST PRIME

Your Success Partner!

GET IT ON Google Play

Download on the App Store

Adda247 GET IT ON Google Play

1. Choose the correct synonym for 'Apparent':
(A) Objective
(B) Obvious
(C) Obsolete
(D) Obscure

2. কোন গ্যাসটি গ্রিনহাউস প্রভাবের প্রধান উপাদান?
(A) কার্বন ডাইঅক্সাইড
(B) নাইট্রোজেন ডাইঅক্সাইড
(C) ক্লোরোফ্লুরোকার্বন
(D) সালফার ডাইঅক্সাইড

কুন গ্যাস হরিতগৃহ প্রভাবको (greenhouse effect) লাগি মুখ্য রূপমা জিম্মেবার হো?
(A) কারবোন ডাइअक्साइड
(B) নাइट্রোজন ডাइअक्साइड
(C) क्लोरोफ्लुरोकारबोन
(D) सलफर डाइअक्साइड

3. একটি পারিবারিক বিবাহ অনুষ্ঠানে, গোলাপি শাড়ি পরিহিতা একজন ভদ্রমহিলার দিকে দেখিয়ে করণ তার বন্ধুকে বলল, "উনি আমার মায়ের শ্বশুরমশাইয়ের একমাত্র নাতনি"। ভদ্রমহিলা করণের কে হন?
(A) বোন
(B) ভাইঝি
(C) কাকিমা
(D) মা

एउटा पारिवारिक विवाहमा, गुलाबी साडी लगाएकी महिलातर्फ देखाउँदै करनले आफनो साथीलाई भन्यो, 'उनी मेरो आमाको ससुराको एक मात्र नातिनी हुन्'। गुलाबी साडी लगाएकी ती महिलाको करनसँग के सम्बन्ध छ?
(A) बहिनी/दिदी
(B) भान्जी
(C) आन्टी
(D) आमा

4. ঐতিহ্যবাহী হাতে তৈরি ব্লেড 'দাও' (Dao)-এর জন্য কোন রাজ্য ভৌগোলিক নির্দেশক (GI) ট্যাগ পেয়েছে?
(A) মণিপুর
(B) আসাম
(C) পশ্চিমবঙ্গ
(D) অরুণাচল প্রদেশ

कुन राज्यले हातले बनाइने धारिलो हतियार 'दाओ'–को (Dao) लागि भौगोलिक संकेत (GI) ट्याग प्राप्त गरेको छ?
(A) मनिपुर
(B) आसाम
(C) पश्चिम बङ्गाल
(D) अरुनाचल प्रदेश

5. এক ব্যক্তির বয়স তাঁর ছেলের বয়সের চারগুণ। 20 বছর বাদে তার বয়স ছেলের বয়সের তিনগুণ হয়। ছেলের বয়স কত বছর?

एकजना मानिस आफनो छोराको उमेर भन्दा चार गुणा जेठो (बुढो) छ। 20 वर्षपछि ऊ आफनो छोराको उमेर भन्दा तीन गुणा जेठो हुनेछ। छोराको उमेर पत्ता लगाउ (वर्षमा)।
(A) 45
(B) 25
(C) 40
(D) 30

6. রক্ত জমাট (blood clotting) বাঁধার জন্য নীচের কোন এনজাইমটি অপরিহার্য?
(A) পেপসিন
(B) থ্রম্বিন
(C) রেনিন
(D) অ্যামাইলেজ

रगत जम्ने प्रक्रियाको (blood clotting) लागि तलको कुन इन्जाइम अवश्यक हुन्छ?
(A) पेपसिन
(B) थ्रोम्बीन
(C) रेनिन
(D) एमिलिस

Adda247 GET IT ON Google Play

7. नीचेर संख्या सारणीर मध्ये भुल संख्याटि बाछुन।
तलको श्रृंखलाबाट गलत संख्या बार गर/पत्ता लगाउ।
2160, 360, 63, 18, 6, 3

(A) 3
(B) 18
(C) 63
(D) 360

8. भारतेर आञ्चलिक समुद्रसीमा (territorial water) कत दूरत्व पर्यन्त विस्तृत?

(A) 200 नटिक्याल माइल
(B) 12 नटिक्याल माइल
(C) 12 किमि
(D) 19·2 माईल

भारतको क्षेत्रीय जलक्षेत्र (territorial water) कति दूरीसम्म फैलिएको छ?

(A) 200 समुद्री (nautical) माइल
(B) 12 समुद्री (nautical) माइल
(C) 12 किमि
(D) 19·2 माइल

9. उत्तर चित्रगुलिर मध्ये थेके एकटि चित्र बेछे निन य प्रश्नबोधक (?) स्थाने बसले प्रश्न चित्रगुलि ये युक्तिते सज्जित आछे ता अनुसृत हबे।

उत्तर चित्रहरूबाट एउटा चित्र बार गर जसले समस्या चित्रहरूको ति तर्कलाइ निरन्तरता दिन्छ अनि प्रश्न चिन्हको (?) स्थानमा आउँन सकछ।



(i) (ii) (iii) (iv) (v)

(A) 
(B) 
(C) 
(D) 

10. यदि कोनो संख्यार 20% अपर एकटि संख्यार दुई पञ्चमांशेर समान हय ताहले प्रथम ओ द्वितीय संख्याटिर अनुपात (ratio) की हबे?

यदि कुनै संख्याको 20% अर्को संख्याको दुई-पञ्चमांश (2/5) सँग बराबर छ भने, पहिलो संख्या र दोस्रो संख्याको अनुपात (ratio) कति हुन्छ?

(A) 7 : 4
(B) 1 : 7
(C) 2 : 5
(D) 2 : 1

Adda247 GET IT ON Google Play

11. কোনো সাংকেতিক ভাষায় 'PULSE'-কে 'DRKTO' এবং 'NEW'-কে 'VDM' লেখা হলে, সেই সাংকেতিক ভাষায় 'PROBES'-কে কী লেখা হবে?

एउटा कोडमा (code) 'PULSE'-लाई 'DRKTO' लेखिन्छ र 'NEW'-लाई 'VDM' लेखिन्छ। यस कोडमा 'PROBES'-लाई कसरी लेखिन्छ?

(A) OPNADR
(B) QSPCFT
(C) RDANQO
(D) TFCPSQ

12. মান নির্ণয় করুন ঃ

मान पत्ता लगाउ:

$5^n \times 25^{n-1} \div \left(5^{n-1} \times 25^{n-1}\right) = ?$

(A) $\frac{1}{5^n}$
(B) 125
(C) 5
(D) 25^n

13. সৌরজগতের সবুজ গ্রহটি (green planet) হল

(A) পৃথিবী (Earth)
(B) শুক্র (Venus)
(C) মঙ্গল (Mars)
(D) ইউরেনাস (Uranus)

सौरमण्डलको हरियो ग्रह (green planet) हो

(A) पृथ्वी (Earth)
(B) शुक्र (Venus)
(C) मंगल (Mars)
(D) युरेनस (Uranus)

14. He said to me, "Do you know the answer?"

Reported speech:

(A) He said I know the answer.
(B) He asked me if I knew the answer.
(C) He asked me do I know the answer.
(D) He told me whether I know the answer.

15. By the time we reached, the train _____

(A) leaves
(B) has left
(C) left
(D) had left

16. Choose the most appropriate antonym of the given word:

Timid

(A) Bold
(B) Punctual
(C) Dubious
(D) Sincere

17. নীচের সিরিজে ভুল সংখ্যাটি বের করুন।

दिएको शृङ्खलामा गलत संख्या खोज लगाउ।

3, 8, 15, 24, 34, 48, 63

(A) 48
(B) 24
(C) 15
(D) 34

18. প্রদত্ত বিকল্পগুলি থেকে লুপ্ত সংখ্যাটি বের করুন।

दिएको विकल्पहरूबाट छुटेको संख्या पत्ता लगाउ।

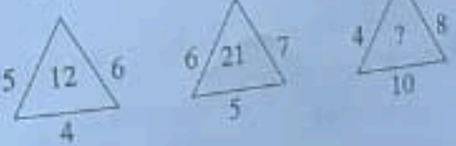

(A) 12
(B) 30
(C) 22
(D) 32

[Please Turn Over]

Adda247 GET IT ON Google Play

19. NITI आयोग द्वारा कोन राज्यको भारतेर आदा राजधानी (Ginger Capital of India) हिसेबे घोषणा करा हयेछे?

(A) गुजराटि
(B) आसाम
(C) मिजोराम
(D) त्रिपुरा

NITI आयोग द्वारा कुन राज्यलाई आधिकारिक रूपमा 'भारतको अदुवा राजधानी' (Ginger Capital of India) घोषित गरिएको छ?

(A) गुजरात
(B) आसाम
(C) मिजोराम
(D) त्रिपुरा

20. नीचेर शब्दगुलिर ग्रुपेर मधे विसदृश शब्दटि बेछे।

(A) धने
(B) बीटमूल
(C) आलू
(D) पेंयाज

समुहको अन्य शब्दहरू संग सबैभन्दा कम मिल्ने (वा सबैभन्दा फरक) शब्द पत्ता लगाउ :

(A) धनिया
(B) बीट
(C) आलु
(D) पियाज

21. रिओ कनभेनशन (Rio Convention) ग्लोबाल फरेस्ट प्रिन्सिपलस (Global Forest Principles)-के समर्थन करेछिल एवं 21 शतके टेकसई वा स्थितिशील उन्नयन (sustainable development) अर्जनेर जन्य _____ ग्रहण करेछिल।

(A) एजेन्डा 22
(B) एजेन्डा 19
(C) एजेन्डा 20
(D) एजेन्डा 21

रियो महासन्धिले (Rio Convention) विश्वव्यापी वन सिद्धान्तलाई (Global Forest Principles) समर्थन गर्‍यो 21st शताब्दीमा दिगो विकास (sustainable development) हासिल गर्नका निम्ती _____ लाई अपनायो।

(A) एजेन्डा 22
(B) एजेन्डा 19
(C) एजेन्डा 20
(D) एजेन्डा 21

22. Which one of the following words is a verb?

(A) Sympathiser
(B) Sympathy
(C) Sympathise
(D) Sympathetic

23. मान निर्णय करुन :

मान पत्ता लगाउ :

$$\frac{(7{\cdot}4)^2-(6{\cdot}4)^2}{(8{\cdot}9)^2+(8{\cdot}9\times 2{\cdot}2)+(1{\cdot}1)^2}=?$$

(A) 0·0138
(B) 0·138
(C) 13·8
(D) 1·38

Adda247 GET IT ON Google Play

24. इटालीय ऐक्यकार (Italian Unification) प्रक्रियार नेतृत्वदानकारी राज्यटिर नाम की?

(A) भिऐना
(B) रोम
(C) सार्डिनिया पिडमन्ट
(D) प्रुशिया

इटालीको एकीकरणको (Italian Unification) प्रक्रियाको नेतृत्व गर्ने राज्यको नाम के हो?

(A) भियना
(B) रोम
(C) सर्डिनिया पिडमन्ट
(D) प्रुसिया

25. एकटि गाडि 12 घन्टाय 816 किमि पथ अतिक्रम करे। गाडिटिर गतिवेग (किमि/घण्टा) कत?

एउटा कारले 12 घण्टामा 816 किलोमिटर दूरी पार गर्छ। त्यस कारको गति कति हो (किलोमिटर/घण्टामा)?

(A) 64
(B) 60
(C) 68
(D) 62

26. वैद्युतिक आधानेर (electric charge) एकक की?

(A) ओयाट (Watt)
(B) आम्पियार (Ampere)
(C) भोल्ट (Volt)
(D) कुलम्ब (Coulomb)

विद्युतीय चार्जको (electric charge) एकाइ (unit) के हो?

(A) वाट्ट (Watt)
(B) एमपियर (Ampere)
(C) भोल्ट (Volt)
(D) कोठलोम्ब (Coulomb)

27. नीचेर वर्णमालाय प्रश्नबोधक (?) स्थाने की बसबे?

तल दिएको वर्णानुक्रममा प्रश्न चिन्हको (?) स्थानमा के आउछ?

A C A B B D B C C E C ?

(A) C
(B) F
(C) B
(D) D

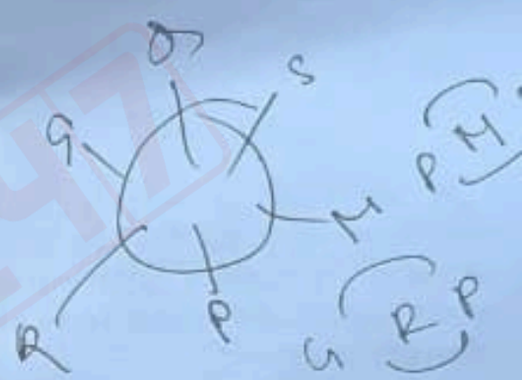

28. P, Q, R, G, S एवं M छयजन सदस्य वृत्ताकारभावे वृत्तेर केन्द्रेर दिके मुख करे बसे आछे। R बसे आछे G एवं P-र माझे। M बसे आछे P एवं S-एर माझे। Q-एर स्थान कोथाय?

(A) R-एर ठिक डानदिके
(B) G एवं S-एर माझे
(C) अनिर्णेय
(D) P-एर ठिक बाँदिके

छजना— P, Q, R, G, S र M एउटा गोलाकारमा केन्द्रतर्फ फर्किएर बसेका छन्—G र P-को बीचमा R छ। P र S-को बीचमा M छ। Q कुन स्थानमा छ?

(A) R-को तुरन्तै दाहिनेमा
(B) G र S-को बीचमा
(C) भन्न सकिन्दैन/अनुमान गर्न सकिन्दैन
(D) P-को तुरन्तै देब्रेमा

Adda247 GET IT ON Google Play

29. शैलेश सिनेमाटि सोमबार देखेछिल। नीतिन सिनेमाटि विकाशेर दुदिन आगे किन्तु शैलेशेर तिनदिन परे देखेछिल। विकाश कोनदिन सिनेमाटि देखेछिल?

(A) रबिवार
(B) शनिवार
(C) सोमबार
(D) मङ्गलबार

सैलेशले सिनेमा सोमबार हेर्‍यो। नितीनले त्यो सिनेमा विकास भन्दा दुइ दिन अघि तर सैलेश भन्दा तिन दिन पछि हेर्‍यो। विकासले कुन दिन सिनेमा हेर्‍यो?

(A) आइतबार
(B) शनिबार
(C) सोमबार
(D) मंगलबार

30. मेयेदेर एकटि उल्लम्ब सारितें (Column) कमला प्रथम दिक थेके एकादश स्थाने आछे। नीला सुनीतार थेके तिन स्थान आगे आछे यें कि ना (सुनीता) प्रथम दिक थेके बाहिशतम स्थाने आछे। ओई उल्लम्ब सारितें कमला ओ नीलार माझे कतजन मेये आछे?

केटोहरूको एउटा लाइनमा (Column) कमला अगाडिबाट 11th स्थानमा छ, नीला सुनिता भन्दा तिन स्थान अगाडि छ जो (सुनिता) अगाडिबाट 22nd स्थानमा छ। त्यस लाइनमा कमला र नीलाको बीच कति जना केटाहरू छन्?

(A) अनिर्णेय (पत्ता लगाउन सकिदैन)
(B) 7
(C) 6
(D) 8

31. Although she thought she knew _____ of the subject, the teacher asked a few details she hardly remembered.

(A) some
(B) much
(C) many
(D) whole

32. कोनो साङ्केतिक भाषाय 'La Ke Ta' मानें 'go and swim', 'Ne La Se' मानें 'you swim here' एवं 'Pe Ke Ne Ta' मानें 'he and you go'। ओई साङ्केतिक भाषाय नीचेर कोनटि 'here' बोझाय?

एउटा कोडमा 'La Ke Ta' -को माने हुन्छ 'go and swim', 'Ne La Se'-को माने हुन्छ 'you swim here', र 'Pe Ke Ne Ta'-को माने हुन्छ 'he and you go'। त्यस कोडमा के ले 'here' बुझाउँछ?

(A) Ne
(B) Ke
(C) La
(D) Se

33. प्रश्नबोधक (?) स्थाने की बसबे?
960 एर 58% – 635 एर ?% = 277·4
प्रश्न चिन्हको (?) स्थानमा के आउनुपर्छ?
58% of 960 – ?% of 635 = 277·4

(A) 58
(B) 36
(C) 24
(D) 44

34. एकटि गाछ तार गोड़ा थेके 5 मिटार उच्चतायं भेंगे याय एवं गाछटिर शीर्ष गोड़ा थेके 12 मिटार दूरे भूमिके स्पर्श करे। गाछटिर उच्चता कत मिटार?

एउटा रूख जमिनबाट 5 मिटरको उचाइमा भाँचिन्छ र त्यसको टुप्पोले रूखको फेदबाट 12 मिटरको दुरीमा जमिनलाई छुन्छ। त्यस रूखको वास्तविक (सुरूको) उचाइ पत्ता लगाउ (मिटरमा)।

(A) 15
(B) 18
(C) 13
(D) 17

Adda247 GET IT ON Google Play

35. $8^4 - 8^2 = ?$

(A) 2048
(B) 512
(C) 4032
(D) 64

36. प्रश्नबोधक (?) स्थानमा के आउँछ?

प्रश्न चिन्हको (?) स्थानमा के आउँछ?

YEB, WFD, UHG, SKI, ?

(A) QNL
(B) QGL
(C) QOL
(D) TOL

37. सोना एवं सोनालिरा वयसेर अनुपात (ratio) 5 : 3। 5 वछर बादे तादेर वयसेर अनुपात हबे 10 : 7। तादेर वयसेर योगफल कत वछर?

सोना र सोनालीको उमेरको अनुपात (ratio) 5 : 3 छ। पाँच वर्षपछि, उनिहरूको उमेरको अनुपात 10 : 7 हुन्छ। उनिहरूको उमेरको योगफल कति हो (वर्षमा)?

(A) 64
(B) 40
(C) 24
(D) 32

38. একটি দুর্গে 1200 সৈনিকের 28 দিনের খাদ্য ছিল। 4 দিন বাদে কিছু সৈন্যকে অন্য দুর্গে পাঠানো হয় এবং আরও 32 দিন ওই খাবার সৈন্যবাহিনী খায়। তাহলে কতজন সৈন্যকে অন্য দুর্গে পাঠানো হয়েছিল?

एउटा किल्लामा 1200 सैनिकहरूको लागि 28-दिन पुग्ने खाना छ। 4 दिनपछि, केही सैनिकहरूलाई अर्को किल्लामा पठाइयो र यसरी बाँकी रहेको खाना थप 32 दिनसम्म चल्यो। कति जना सैनिकहरूले किल्ला छोडे?

(A) 400
(B) 250
(C) 300
(D) 325

39. এক ব্যক্তি ও তাঁর ছেলের বয়সের গড় (average) 35 বছর। তাঁদের বয়সের অনুপাত (ratio) 5 : 2 হলে ছেলের বয়স কত বছর?

एकजना मानिस र उसको छोराको औसत (average) उमेर 35 वर्ष छ। उनीहरूको उमेरको अनुपात (ratio) क्रमश 5 : 2 छ। छोराको उमेर (वर्षमा) कति होला?

(A) 25
(B) 20
(C) 10
(D) 15

40. একটি আয়তাকার প্লটের দৈর্ঘ্য তার প্রস্থ অপেক্ষা 5 মিটার বেশি। যদি আয়তাকার প্লটটির পরিসীমা (Perimeter) 142 মিটার হয় তাহলে প্লটটির দৈর্ঘ্য কত মিটার?

एउटा आयातकार प्लटको लम्बाई त्यसको चौडाइ भन्दा 5-मिटरले बढी (ठूलो) छ। यदि त्यो प्लटको परिमिति (Perimeter) 142 मिटर छ भने, प्लटको लम्बाई पत्ता लगाउ (मिटरमा)।

(A) 36
(B) 42
(C) 38
(D) 34

41. ভারতের সংবিধান কবে গৃহীত (adopted) হয়েছিল?

(A) 15 আগস্ট, 1947
(B) 26 নভেম্বর, 1949
(C) 26 জানুয়ারি, 1950
(D) 10 অক্টোবর, 1948

भारतको संविधान कहिले स्वीकृत (adopted) गरिएको थियो?

(A) 15 अगस्त, 1947
(B) 26 नोभेम्बर, 1949
(C) 26 जनवरी, 1950
(D) 10 अक्टोबर, 1948

Adda247 GET IT ON Google Play

48. কোন সালে চৌরি-চৌরা ঘটনাটি ঘটেছিল যার কারণে মহাত্মা গান্ধী অসহযোগ আন্দোলন (Non-Cooperation movement) প্রত্যাহার করে নিয়েছিলেন?

चौरी चौरा घटना कुन वर्षमा घटेको थियो जसले महात्मा गान्धीलाई असहयोग आन्दोलन (Non-Cooperation movement) फिर्ता लिन वाध्य बनायो ?

(A) 1922
(B) 1921
(C) 1919
(D) 1920

49. ওয়াশিং সোডা (Washing Soda) কার সাধারণ নাম?

(A) ক্যালশিয়াম কার্বনেট
(B) ক্যালশিয়াম বাইকার্বনেট
(C) সোডিয়াম কার্বনেট
(D) সোডিয়াম বাইকার্বনেট

वासिङ सोडा (Washing Soda) के चाँहिको साधारण नाम हो

(A) क्यालसियम कारबोनेट
(B) क्यालसियम बाइकारबोनेट
(C) सोडियम कारबोनेट
(D) सोडियम बाइकारबोनेट

50. 12, 22, 42 এবং 72-এর সঙ্গে কোন সংখ্যা যোগ করলে প্রাপ্ত সংখ্যাগুলি সমানুপাতিক (in proportion) হবে?

12, 22, 42 र 72 प्रत्येक संख्यामा कुन संख्या थप्दा बन्ने नयाँ संख्याहरू समानुपातमा (in proportion) हुन्छन्?

(A) 9
(B) 5
(C) 3
(D) 7

51. প্রদত্ত বিকল্পগুলি থেকে লুপ্ত অক্ষরটি বের করুন।

दिएको विकल्पहरूबाट छुटेको अक्षर पत्ता लगाउ।

A	D	G
D	I	N
I	P	?

(A) Y
(B) W
(C) V
(D) X

52. Priya was being impolite _____ everyone at the party.

(A) to
(B) at
(C) with
(D) on

53. যদি A > B, B > C এবং C > D হয়, তবে নীচের কোন সিদ্ধান্তটি নিশ্চিতরূপে ভুল?

यदि A > B, B > C र C > D, तल दिएको कुन निष्कर्ष निश्चित रूपमा गलत छ?

(A) B > D
(B) A > C
(C) A > D
(D) D > A

54. আমের বৈজ্ঞানিক নাম (scientific name) হল

आँपको वैज्ञानिक नाम (scientific name) के हो ?

(A) *Citrus limon*
(B) *Malus domestica*
(C) *Mangifera indica*
(D) *Musa paradisiaca*

Adda247 GET IT ON Google Play

55. 2026 সালের এশিয়ান গেমস-এ কোন দেশ পদক তালিকায় শীর্ষে থেকে শেষ করেছে?
(A) চীন
(B) দক্ষিণ কোরিয়া
(C) জাপান
(D) ভারত

सन् 2026 को एसिया खेलकुदको मेडल तालिकामा कुन देश शीर्ष स्थानमा रहयो ?
(A) चीन
(B) सावउत कोरिया
(C) जापान
(D) भारत

56. ডকট্রিন অফ ল্যাপস (The doctrine of lapse) কার দ্বারা প্রবর্তিত হয়েছিল?
(A) লর্ড ওয়েলেসলি
(B) লর্ড ডালহৌসি
(C) ওয়ারেন হেস্টিংস
(D) লর্ড কর্নওয়ালিস

द डोकट्रिन अफ ल्याप्स (The Doctrine of Lapse) कसले सुरु गरेको थिए ?
(A) लर्ड वेलेसलि
(B) लर्ड डलहौजी
(C) वारेन हेस्टिङ्गस
(D) लर्ड कर्नवालीस

57. ভূত্বকের (earth's crust) দুর্বল অঞ্চলের নাম কী?
(A) অ্যানিমিক
(B) সিসমিক
(C) কসমিক
(D) ফর্মিক

पृथ्वीको क्रस्टको (earth's crust) कमजोर क्षेत्र कार्ड के भनिन्छ ?
(A) एनेमिक
(B) सेसमिक
(C) कजमिक
(D) फोरमिक

58. Select the correct passive form of the given sentence:

Who broke this exceptionally beautiful glass window?

(A) By whom has this exceptionally beautiful glass window been broken?
(B) Who has broken this exceptionally beautiful glass window?
(C) By whom is this exceptionally beautiful glass window broken?
(D) By whom was this exceptionally beautiful glass window broken?

59. "Wings of Fire" বইটির লেখক কে?
(A) অরুন্ধতী রায়
(B) এ.পি.জে. আব্দুল কালাম
(C) সালমান রুশদি
(D) শশী থারুর

"Wings of Fire" किताब कसले लेखेका हुन् ?
(A) अरुन्धती रोय
(B) ए.पी.जे. अब्दुल कलाम
(C) सलमान रुस्दी
(D) शशी थरुर

60. 2025 আইসিসি মহিলা ক্রিকেট বিশ্বকাপে ঐতিহাসিক জয়ের সময় ভারতীয় মহিলা ক্রিকেট দলের অধিনায়ক কে ছিলেন?
(A) হরমনপ্রীত কৌর
(B) রিচা ঘোষ
(C) স্মৃতি মন্ধানা
(D) জেমাইমা রদ্রিগেজ

सन् 2025 को ऐतिहासिक आइसिसी महिला क्रिकेट विश्वकपमा विजय हासिल गर्दा भारतीय महिला क्रिकेट टोलीको कप्तान को थिए ?
(A) हरमानप्रित कौर
(B) रिचा घोष
(C) स्मृति मन्धाना
(D) जेमाइमा रोड्रिगेज

Adda247 GET IT ON Google Play

61. যদি দুই অঙ্কের (two-digit) একটি সংখ্যা ও অঙ্কগুলি উল্টে দেওয়ার ফলে প্রাপ্ত সংখ্যার যোগফল 55 হয় তাহলে সংখ্যাটির অঙ্কদ্বয়ের যোগফল কত?

यदि कुनै दुई-अंकको संख्या (two-digit) र त्यसको अंकहरू उल्टयाएर बनेको संख्याको योगफल 55 हुन्छ भने, त्यो दुई-अंकको संख्याको अंकहरूको योगफल पत्ता लगाउ।

(A) 8
(B) 9
(C) 5
(D) 15

62. দুটি নলকূপ একটি জলাধারকে (cistern) যথাক্রমে 10 ঘণ্টা ও 8 ঘণ্টায় ভর্তি করতে পারে। তৃতীয় একটি নলকূপ ওই জলাধারকে 15 ঘণ্টায় খালি করে। যদি তিনটি নলকূপ একসঙ্গে খোলা থাকে, তাহলে খালি জলাধারটি কত ঘণ্টায় ভর্তি হবে?

दुइवटा कलले एउटा सिस्टर्न (cistern) क्रमश 10-घण्टा र 8-घण्टामा भर्नु सकछ। तेस्रो कलले त्यो सिस्टर्नलाइ 15-घण्टामा खाली गर्न सकछ। यदी ती तिनवटा कलहरूलाई एकसात खोलेमा, खाली सिस्टर्नलाई भर्न कति समय लाग्छ (घण्टामा)?

(A) 7
(B) $3\frac{2}{23}$
(C) $6\frac{6}{19}$
(D) $4\frac{1}{5}$

63. কোনো শ্রেণিকক্ষে 35 জন বিদ্যার্থী আছে। ছাত্রীদের মধ্যে শ্রেণিতে সুমনার স্থান তৃতীয়। ছাত্রদের মধ্যে শ্রেণিতে অমিতের স্থান পঞ্চম। সুমনা শ্রেণিতে অমিতের থেকে এক স্থান নীচে। শ্রেণিতে কোনও দুজন একই স্থানে নেই। শ্রেণিতে অমিতের স্থান কোথায়?

(A) ষষ্ঠ
(B) সপ্তম
(C) অনির্ণেয়
(D) অষ্টম

कक्षामा 35 जना विद्यार्थी छन्। सुमना कक्षाको छात्रीहरू मध्ये तेस्रो स्थानमा (rank) छ। अमित कक्षाको छात्रहरू मध्ये पाँचौ स्थानमा छ। कक्षामा सुमना अमित भन्दा एक स्थान तल छ। कक्षामा कुनै पनि दुई विद्यार्थीको स्थान समान छैन। कक्षामा अमितको स्थान के हो?

(A) छैटौँ
(B) सातौँ
(C) पत्ता लगाउन सकिँदैन
(D) आठौँ

64. ইংরেজি বর্ণমালায় স্থানগত দিক দিয়ে নীচের চারটির মধ্যে তিনটি সদৃশ এবং একটি গ্রুপ তৈরি করে। কোনটি গ্রুপের মধ্যে নয়?

तल दिएको चारवटा विकल्पहरू मध्ये तीनवटा अंग्रेजी वर्णमालामा आफनो स्थानका आधारमा समान छन् र त्यसैले एउटा समुह बनाउँछन्। कुन चौहि समूहमा पर्दैन?

(A) C
(B) P
(C) J
(D) F

65. কোনো সংখ্যার 56% হল 1064। ওই সংখ্যার 38% কত?

कुनै संख्याको 56% 1064 हो भने, त्यो संख्याको 38% कति हुन्छ?

(A) 856
(B) 722
(C) 912
(D) 666

Adda247 GET IT ON Google Play

कान वछर ভারতে প্রথম জনগণনা (census) শুরু ?

भारतमा पहिलो जनगणना (census) कुन वर्षमा सुरु थियो ?

(A) 1947
(B) 1911
(C) 1872
(D) 1921

73. যদি $3A = 5B = 6C$ হয় তাহলে A : B : C = ?
यदी $3A = 5B = 6C$, भने A : B : C = ?
(A) 14 : 10 : 9
(B) 3 : 5 : 6
(C) 10 : 6 : 5
(D) 5 : 7 : 9

74. খাবার গেলার সময় কোনটি খাদ্যকে শ্বাসনালীতে (windpipe) প্রবেশ করতে বাধা দেয় ?
(A) গ্রাসনালী (Esophagus)
(B) স্বরযন্ত্র (Larynx)
(C) উপজিহ্বা (Epiglottis)
(D) শ্বাসনালী (Trachea)

खाना खाँदा खानालाई श्वासनली (windpipe) भित्र पस्नबाट के ले रोक्छ ?
(A) एसोफेगस (Esophagus)
(B) ल्यारिन्स (Larynx)
(C) एपिग्लोटिस (Epiglottis)
(D) ट्राकिया (Trachea)

75. Select the incorrectly spelt word:
(A) Permission
(B) Malicious
(C) Repugnent
(D) Perceive

76. খাবার চিনি (Table sugar) কোন ধরনের চিনি ?
(A) গ্লুকোজ
(B) গ্যালাক্টোজ
(C) ফ্রুক্টোজ
(D) সুক্রোজ

साधारण चिनी (Table sugar) कुन प्रकारको चिनी हो ?
(A) ग्लुकोस
(B) ग्याल्याकटोस
(C) फ्रुकटोस
(D) सुक्रोस

77. প্রশ্নবোধক (?) স্থানে কী বসলে নীচের সিরিজটির যুক্তি বজায় থাকে ?
শৃংখলা (series) নিরন্তর জারী রহেমা প্रश्न चिन्हको (?) स्थानमा के आउँछ ?



(i) (ii) (iii) (iv) (v)

(A) 
(B) 
(C) 
(D) 

78. 8 যেভাবে 16P-র সঙ্গে সম্পর্কিত এবং 6 যেভাবে 12L-এর সঙ্গে সম্পর্কিত সেভাবে 11 কার সঙ্গে সম্পর্কিত ?
'8'-को सम्बन्ध छ '16P' सित र '6'-को सम्बन्ध छ '12L' सित, त्यसरीनै जसरी '11'-को सम्बन्ध छ _____ सित।
(A) 22J
(B) 22R
(C) 22V
(D) 22K

Adda247 GET IT ON Google Play

79. एकटि स्टिमार स्रोतेर अनुकूले (downstream) दुटि बन्दरेर मध्येकार दूरत्व 5 घन्टाय एवं स्रोतेर प्रतिकूले (upstream) ओई दूरत्व 6 घन्टाय अतिक्रम करे। यदि स्रोतेर वेग 1 किमि/घण्टा हय तबे दुई बन्दरेर मधे दूरत्व कत किमि?

एउटा स्टिमर नदीको बहाब बेगको दिशातिर (downstream) जाँदा दुईवटा पोर्ट बीचको दूरी 5-घण्टामा पार गर्छ। त्यही दूरी नदीको बहाब विपरीत दिशातिर (upstream) जदाँ त्यसले 6-घण्टामा पार गर्छ। यदि नदीको बहाबको गति 1 किलोमिटर/घण्टा छ भने, तो पोर्टहरू बीचको दूरी पत्ता लगाउ (किलोमिटरमा)।

(A) 90
(B) 30
(C) 60
(D) 45

80. पश्चिमबङ्गेर कोन जेलाटि 'पश्चिमबङ्गेर धानेर गोला' (Rice Bowl of West Bengal) नामे परिचित?

(A) जलपाईगुड़ि
(B) उत्तर दिनाजपुर
(C) बीरभूम
(D) पूर्व बर्धमान

पश्चिम बङ्गालको कुन जिल्लालाई 'पश्चिम बङ्गालको धानको कचौरा' (Rice Bowl of West Bengal) उपनामले चिनिन्छ?

(A) जलपाइगुडी
(B) उत्तर दिनाजपुर
(C) बीरभूम
(D) पूर्व बर्धमान

81. $6\frac{2}{3} \div 4\frac{4}{5} = ?$

(A) $1\frac{5}{8}$
(B) $1\frac{7}{18}$
(C) $1\frac{1}{3}$
(D) $1\frac{12}{19}$

82. x-एर मान डिग्रिते बेर करुन:
दिएको चित्रमा x-को मान (डिग्रीमा) खोज लगाउ:

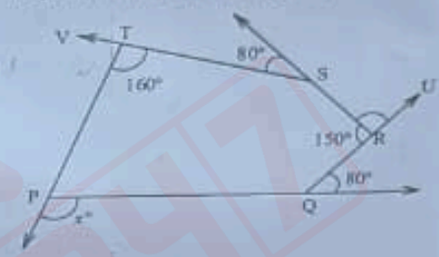

(A) 210°
(B) 170°
(C) 150°
(D) 110°

83. एकटि डाईसेर (dice) चारटि आलादा अवस्थान देखया आछे।

एउटा पासाको (dice) थार फरक-फरक अवस्थाहरू तल दिएका छन्।



कोन संख्याटि 6-एर उल्टो दिके थाकबे?
6-को विपरीत सतहमा कुन संख्या हुन्छ?

(A) 4
(B) 2
(C) 1
(D) 3

Adda247 GET IT ON Google Play

84. বিবৃতি : All pens are roads. All roads are houses.

উপসংহার : (I) All houses are pens.

(II) Some houses are pens.

উপরের বিবৃতি দুটির উপর নির্ভর করে দুটি উপসংহার তৈরি করা হয়েছে। নীচের প্রদত্ত বিকল্পগুলি থেকে বের করুন কোনটি বিবৃতি দুটির ক্ষেত্রে সঠিকভাবে প্রযোজ্য।

(A) উপসংহার (I) এবং (II) কোনোটিই প্রযোজ্য নয়।

(B) শুধুমাত্র উপসংহার (II) প্রযোজ্য।

(C) শুধুমাত্র উপসংহার (I) প্রযোজ্য।

(D) উপসংহার (I) এবং (II) উভয়ই প্রযোজ্য।

वक्तव्य : All pens are roads. All roads are houses.

निष्कर्ष : (I) All houses are pens.

(II) Some houses are pens.

दिएको दुइ वक्तव्य अनुसार दुइवटा निष्कर्ष फेला परेको छ। दिएका दुइवटा वक्तव्यहरुबाट तलका विकल्पहरू मध्ये कुन चाँहि निष्कर्ष निस्कन्छ, पत्ता लगाउ :

(A) (I) र (II) कुनै पनि होइन।

(B) निष्कर्ष (II) मात्र

(C) निष्कर्ष (I) मात्र

(D) दुवै निष्कर्ष (I) र (II)

88. क्षुद्रतम कोन संख्या 1500-र सङ्गे योग करालें ता एकटि पूर्णवर्ग (perfect square) संख्या हवे?

1500 संग कुन सबैभन्दा सानो संख्या थप्दा यो पूर्ण वर्ग (perfect square) बन्छ?

(A) 16

(B) 19

(C) 21

(D) 35

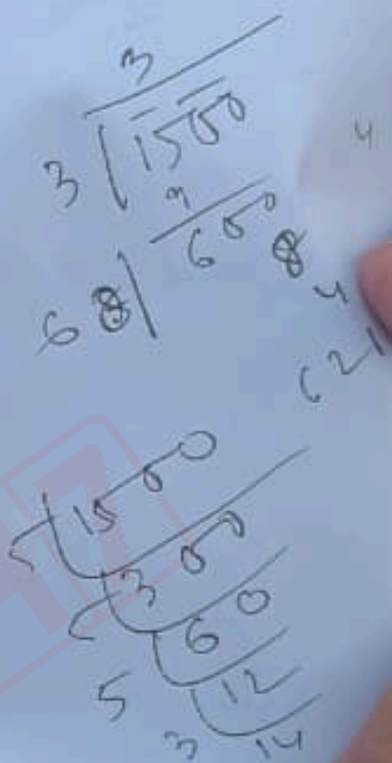

Test Prime By Adda247

PREVIOUS YEAR PAPERS PDF

PRACTICE MORE, SCORE HIGHER!

PDF

Free 25,000+ PDF's

High-Quality | Exam-Wise | Updated Regularly

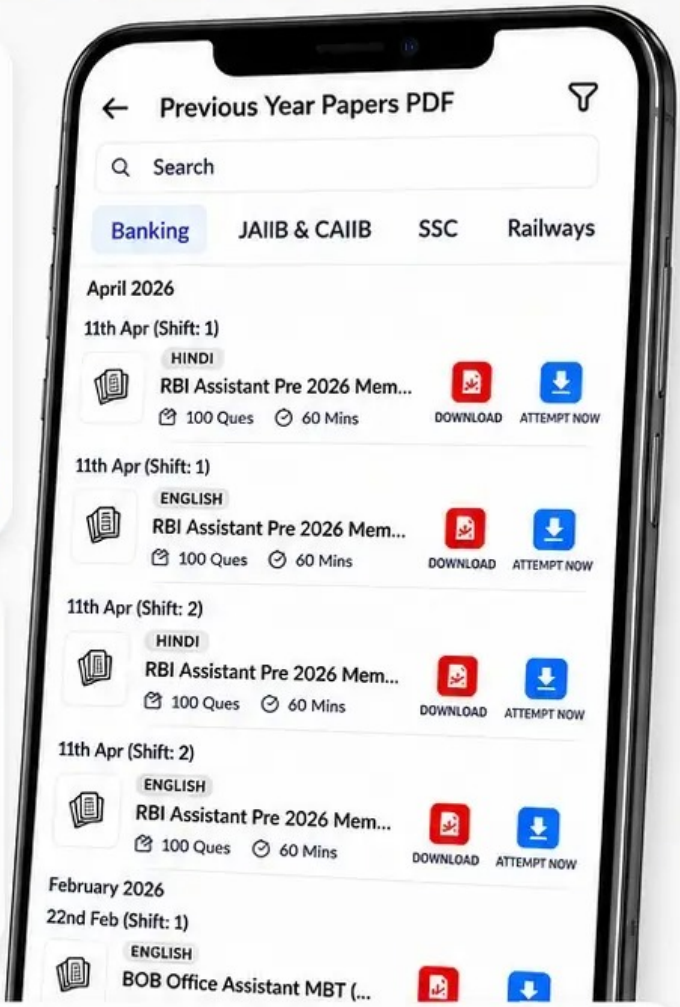

ATTEMPT AS MOCK

Turn PDFs into real exam experience.

Analyze. Improve. Succeed.

- Topic-wise & Exam-wise PDFs
- Download & Study Offline
- Attempt as Mock & Track Score
- Smart Analysis & Performance

AVAILABLE IN

Banking | SSC | Railway | Teaching | UGC | Agriculture | Nursing

Bihar | UP | Punjab | WB | Odisha | TN | AP & Telangana | Haryana

DOWNLOAD TEST PRIME

Test Prime

SUCCESS GALLERY!

MEET THE ACHIEVERS


Shreya, SBI PO


Sahil, SBI PO


Srijita, SBI PO


Vikram, IBPS PO


Neeti, IBPS PO


Arya, IBPS PO


Hasan, SSC CGL


Palak, SSC CGL


Priti, UP TGT


Aniket, Bihar Stet


Shaurya, NTPC


Sarita, CTET


Gourav, NTPC


Sanni, NTPC


Abhishek, CTET


Sapna, IBPS Clerk

THEY DID IT. YOU CAN TOO

READ THEIR STORIES !