Adda247 GET IT ON Google Play



1. 'संन्यास' शब्द में कौन-सा उपसर्ग प्रयुक्त है ?
   A) संन्
   B) सन्
   C) सम्
   D) सम
   E) उपर्युक्त में से कोई नहीं

2. 'सहयोगी' का विलोम क्या है ?
   A) अयोगी
   B) नियोगी
   C) वियोगी
   D) सुयोगी
   E) उपर्युक्त में से कोई नहीं

3. 'कौन आता है ?' रेखांकित पद किस सर्वनाम का उदाहरण है ?
   A) अनिश्चयवाचक
   B) प्रश्नवाचक
   C) निश्चयवाचक
   D) निजवाचक
   E) उपर्युक्त में से कोई नहीं

4. निम्नलिखित विकल्पों में से 'देशज' शब्द का चयन कीजिए ।
   A) दुकान
   B) चमचा
   C) खूब
   D) डिबिया
   E) उपर्युक्त में से कोई नहीं

5. विलोम शब्द के लिए सही विकल्प का चयन कीजिए ।
   A) अंत – अस्त
   B) अज्ञ – अथ
   C) आगामी – विगत
   D) अति – मर्त्य
   E) उपर्युक्त में से कोई नहीं

6. 'हिमालय से गंगा निकलती है ।' यह किस कारक का उदाहरण है ?
   A) करण कारक
   B) संप्रदान कारक
   C) कर्म कारक
   D) अपादान कारक
   E) उपर्युक्त में से कोई नहीं

7. 'तुलनाबोधक निपात' का चयन कीजिए ।
   A) काश
   B) सा
   C) मत
   D) जी
   E) उपर्युक्त में से कोई नहीं

8. 'जानने की इच्छा' इस वाक्यांश के लिए एक शब्द है
   A) दुराग्रह
   B) अज्ञ
   C) आग्रह
   D) जिज्ञासा
   E) उपर्युक्त में से कोई नहीं

9. हिंदी में स्वरवर्णों की संख्या कितनी है ?
   A) बारह
   B) चौदह
   C) ग्यारह
   D) तैंतीस
   E) उपर्युक्त में से कोई नहीं

10. निम्नलिखित शब्दों में से 'वातानुकूलन-यंत्र' का कौन-सा अर्थ सर्वाधिक उपयुक्त है ?
   A) फ्रिज़
   B) एयर प्यूरीफायर
   C) एयर कंडीशनर
   D) रूम हीटर
   E) उपर्युक्त में से कोई नहीं

Adda247

# Test Prime

## ALL EXAMS, ONE SUBSCRIPTION

**1,00,000+** Mock Tests

Personalised Report Card

Unlimited Re-Attempt

**600+** Exam Covered

**25,000+** Previous Year Papers

**500%** Refund

IBPS

NABARD

INDIAN RAILWAYS

**ATTEMPT FREE MOCK NOW**

Adda247 GET IT ON Google Play

11. निम्न में से विस्मयादिबोधक अव्यय कौन-सा है ?

A) केवल

B) धीरे-धीरे

C) वाह-वाह !

D) आर-पार

E) उपर्युक्त में से कोई नहीं

12. 'वह हथियार जो फेंककर चलाया जाता है' क्या कहलाता है ?

A) शस्त्र B) शास्त्र

C) अस्त्र D) निशस्त्र

E) उपर्युक्त में से कोई नहीं

13. निम्नलिखित में से 'अशुद्ध' शब्द का चयन कीजिए ।

A) संवाद B) गोपी

C) निरोग D) आविष्कार

E) उपर्युक्त में से कोई नहीं

14. 'अग्नि' का पर्यायवाची है

A) वसन

B) वायुसखा

C) अतुल

D) महाकाय

E) उपर्युक्त में से कोई नहीं

15. 'निंब' का तद्भव रूप क्या है ?

A) नींबू B) निमू

C) नीम D) नमक

E) उपर्युक्त में से कोई नहीं

16. 'शिवालय' का संधि-विच्छेद क्या है ?

A) शिव + आलय

B) शिवा + अलय

C) शिवा + आलय

D) शिव + अलय

E) उपर्युक्त में से कोई नहीं

17. 'विज्ञापन' शब्द में मूल शब्द क्या है ?

A) वि B) विज्ञ

C) ज्ञापन D) विज्ञा

E) उपर्युक्त में से कोई नहीं

18. निम्न में से 'तत्सम' शब्द कौन-सा है ?

A) कुँआ B) जीभ

C) कान D) आम

E) उपर्युक्त में से कोई नहीं

19. वाक्य के शुद्ध रूप का चयन कीजिए ।

A) हम गाना का कसरत कर रहें हैं ।

B) मैं गाने की कसरत कर रहा हूँ ।

C) मैं गाने का कसरत कर रहा हूँ ।

D) मैं गाने का रियाज़ कर रहा हूँ ।

E) उपर्युक्त में से कोई नहीं

20. 'महेंद्र' किस संधि का उदाहरण है ?

A) वृद्धि B) गुण

C) दीर्घ D) यण्

E) उपर्युक्त में से कोई नहीं

Adda247 GET IT ON Google Play

21. 'अंधों में काना राजा' इस लोकोक्ति का अर्थ है
A) डींग हाँकना
B) गुण के विरुद्ध नाम होना
C) अकेला आदमी लाचार होता है
D) मूर्खों में कुछ पढ़ा-लिखा व्यक्ति
E) उपर्युक्त में से कोई नहीं

22. 'जो लड़के अच्छे होते हैं, वे परिश्रमी होते हैं।' यह किस प्रकार के वाक्य का उदाहरण है ?
A) सरल वाक्य
B) संयुक्त वाक्य
C) मिश्र वाक्य
D) निषेधवाचक वाक्य
E) उपर्युक्त में से कोई नहीं

23. 'संभव है, रमेश कल आए।' यह वाक्य किस काल का उदाहरण है ?
A) संभाव्य भविष्य
B) संदिग्ध भूत
C) संभाव्य वर्तमान
D) सामान्य भविष्य
E) उपर्युक्त में से कोई नहीं

24. 'विज्ञापन की वैसाखी' इस वाक्यांश का भाव क्या है ?
A) विज्ञापन का तरीका
B) विज्ञापन की जरुरत
C) विज्ञापन का उत्सव
D) विज्ञापन की ताकत
E) उपर्युक्त में से कोई नहीं

25. 'राहखर्च' किस समास का उदाहरण है ?
A) बहुव्रीहि समास
B) द्विगु समास
C) द्वंद्व समास
D) तत्पुरुष समास
E) उपर्युक्त में से कोई नहीं

26. 'शब्द' के शुद्ध रूप का चयन कीजिए।
A) प्रशाद
B) प्राषाद
C) प्रषाद
D) प्रसाद
E) उपर्युक्त में से कोई नहीं

27. रचना की दृष्टि से वाक्य के कितने प्रकार हैं ?
A) चार
B) छह
C) दो
D) सात
E) उपर्युक्त में से कोई नहीं

28. इनमें से कौन-सा शब्द 'जीवन' का अर्थ नहीं है ?
A) जल
B) प्राण
C) शिक्षक
D) जीवित
E) उपर्युक्त में से कोई नहीं

29. इनमें से गुणवाचक विशेषण शब्द कौन-सा है ?
A) बहुत
B) पुराना
C) आप
D) पचीस
E) उपर्युक्त में से कोई नहीं

30. 'स्तब्ध होना' इस अर्थ को व्यक्त करने वाला मुहावरा
A) हाथ मलना
B) सफ़ेद झूठ
C) हाथ के तोते उड़ना
D) आँखें चुराना
E) उपर्युक्त में से कोई नहीं

Adda247 GET IT ON Google Play

31. निम्नलिखित अनुक्रम के लिए सबसे उपयुक्त उत्तर चुनें ।

○○● | ▲△△ | □ ?

A) □ ■

B) □ □

C) △ ▲

D) □ ■

E) उपर्युक्त में से कोई नहीं

Choose the most appropriate answer for the following sequence.

○○● | ▲△△ | □ ?

A) □ ■

B) □ □

C) △ ▲

D) □ ■

E) None of the above

32. यदि 40 विद्यार्थियों की एक कक्षा में राम का स्थान ऊपर से 14 वां है तथा श्याम के स्थान से नीचे 10 विद्यार्थी हैं, तो राम और श्याम के बीच विद्यार्थियों की संख्या है

A) 15 B) 16

C) 14 D) 18

E) उपर्युक्त में से कोई नहीं

If Ram ranks 14th from top in a class of 40 students and there are 10 students below Sham's rank, then number of students between Ram and Sham is

A) 15 B) 16

C) 14 D) 18

E) None of the above

33. उस विकल्प का चयन करें जो निम्नलिखित शब्दों के सही वर्णानुक्रम को दिखाता है जैसे वे एक अंग्रेजी शब्दकोश में दिखाई देंगे :

a. Mountain

b. Mourn

c. Mouse

d. Mould

e. Motel

f. Motion

A) e, f, d, a, b, c

B) f, e, a, d, c, b

C) d, a, e, f, b, c

D) e, d, f, a, b, c

E) उपर्युक्त में से कोई नहीं

Select the option that shows the correct alphabetical order of the following words as they would appear in an English dictionary :

a. Mountain

b. Mourn

c. Mouse

d. Mould

e. Motel

f. Motion

A) e, f, d, a, b, c

B) f, e, a, d, c, b

C) d, a, e, f, b, c

D) e, d, f, a, b, c

E) None of the above

Adda247 GET IT ON Google Play

34. निम्नलिखित तालिका के आधार पर लगातार दो तिमाहियों (Q1 और Q2) में चार प्रमुख क्षेत्रों (उत्तर, दक्षिण, पूर्व और पश्चिम) के लिए कंपनी की कुल वार्षिक बिक्री का प्रतिनिधित्व करते हुए, Q1 से Q2 तक बिक्री में अधिकतम वृद्धि वाला क्षेत्र है

| क्षेत्र | Q1 बिक्री (लाख में) | Q2 बिक्री (लाख में) |
|---|---|---|
| उत्तर | 15,000 | 18,000 |
| दक्षिण | 22,000 | 25,000 |
| पूर्व | 12,000 | 14,000 |
| पश्चिम | 18,000 | 20,000 |

A) दक्षिण और पश्चिम
B) पूर्व और पश्चिम
C) उत्तर और पूर्व
D) पश्चिम
E) उपर्युक्त में से कोई नहीं

Based on the following table representing a company's total annual sales for four major regions (North, South, East and West) over two consecutive quarters (Q1 and Q2), the region with maximum increase in sales from Q1 to Q2 is

| Region | Q1 Sales (in lakhs) | Q2 Sales (in lakhs) |
|---|---|---|
| North | 15,000 | 18,000 |
| South | 22,000 | 25,000 |
| East | 12,000 | 14,000 |
| West | 18,000 | 20,000 |

A) South and West
B) East and West
C) North and East
D) West
E) None of the above

35. सबसे उपयुक्त विकल्प चुनें ।
सेब : फल : : पीला : ?

A) कपड़ा
B) हल्दी
C) रंग
D) सुन्दर
E) उपर्युक्त में से कोई नहीं

Select the most appropriate option.
APPLE : FRUIT : : YELLOW : ?

A) CLOTH
B) TURMERIC
C) COLOUR
D) BEAUTIFUL
E) None of the above

36. यदि एक निश्चित कोड भाषा में 'CALL' को 'BZKK' के रूप में लिखा जाता है, तो उस भाषा में 'PEON' कैसे कोड किया जाएगा ?

A) ODMN
B) ODNM
C) OMND
D) ONDM
E) उपर्युक्त में से कोई नहीं

If in a certain code language 'CALL' is written as 'BZKK', then how will 'PEON' be coded in that language ?

A) ODMN
B) ODNM
C) OMND
D) ONDM
E) None of the above

Adda247 GET IT ON Google Play

37. वार्षिक घरेलू खर्चों को दिखाने वाले निम्नलिखित पाई चार्ट के आधार पर, किराए पर खर्च की गई राशि और खाने पर खर्च की गई राशि का अनुपात क्या है ?

घरेलू व्यय वितरण (₹ में)

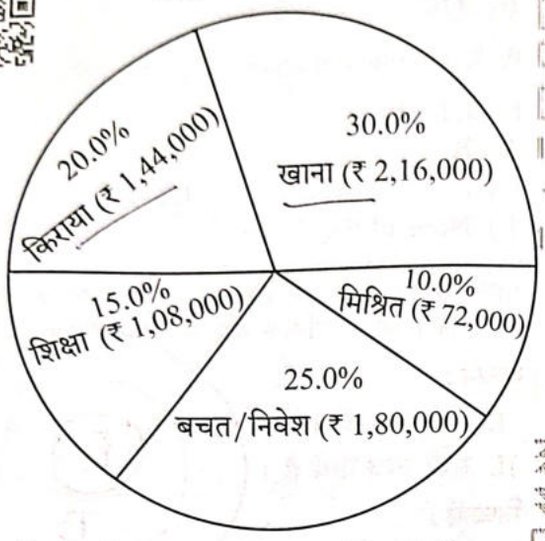


A) 1 : 3
B) 3 : 2
C) 1 : 2
D) 4 : 5
E) उपर्युक्त में से कोई नहीं

Based on the following pie chart showing annual household expenses, what is the ratio of the amount spent on rent to the amount spent on food ?

**Household Expense Distribution (in ₹)**




A) 1 : 3
B) 3 : 2
C) 1 : 2
D) 4 : 5
E) None of the above

38. संबंधित आकृति का चयन करें जो समतुल्यता के अनुरूप हो ।

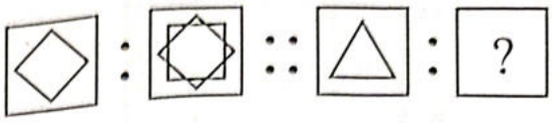

A)

B)

C)

D) 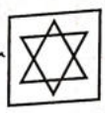

E) उपर्युक्त में से कोई नहीं

Select the related figure that fits the analogy.

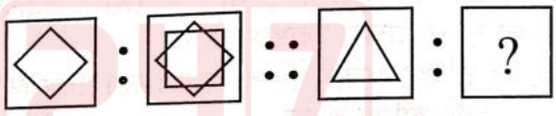

A)

B)

C)

D)

E) None of the above

Adda247 GET IT ON Google Play

39. निम्नलिखित आकृति में वर्गों की संख्या है



A) 24 B) 30
C) 16 D) 32
E) उपर्युक्त में से कोई नहीं

The number of squares in the following figure is



A) 24 B) 30
C) 16 D) 32
E) None of the above

40. निम्नलिखित में से कौन-सा एक रिश्ते में प्रभावी संचार का सबसे अच्छा उदाहरण है ?
A) संक्षिप्त सलाह देने के लिए किसी अन्य व्यक्ति को बाधित करना
B) मान लेना कि आप बिना पूछे जानते हैं कि उनका क्या मतलब है
C) जवाब देने से पहले सुनना
D) जब तक वे शांत नहीं हो जाते, तब तक व्यक्ति के साथ बातचीत से बचना
E) उपर्युक्त में से कोई नहीं

Which of the following best exemplifies effective communication in a relationship ?
A) Interrupting another person to offer brief advice
B) Assuming you know what they mean without asking
C) Listening before responding
D) Avoiding interaction with the individual until they have calmed down
E) None of the above

41. निम्नलिखित में से विषम को चुनें :
E, H, K, N.
A) K B) H
C) N D) E
E) उपर्युक्त में से कोई नहीं

Pick odd one out among the following :
E, H, K, N.
A) K B) H
C) N D) E
E) None of the above

42. मान लीजिए कि दोनों कथन सत्य हैं । तय करें कि कौन-से निष्कर्ष तार्किक रूप से अनुसरण करते हैं ?

**कथन :**
I. सभी फल बीज हैं ।
II. सभी बीज पौधें हैं ।

**निष्कर्ष :**
I. कोई भी पौधा फल नहीं है ।
II. कोई भी बीज फल नहीं है ।
III. सभी पौधें फल हैं ।
A) केवल निष्कर्ष II अनुसरण करता है
B) दोनों निष्कर्ष I और II अनुसरण करते हैं
C) केवल निष्कर्ष I अनुसरण करता है
D) दोनों निष्कर्ष II और III अनुसरण करते हैं
E) उपर्युक्त में से कोई नहीं

Assume both statements are true. Decide which conclusions logically follow ?

**Statements :**
I. All fruits are seeds.
II. All seeds are plants.

**Conclusions :**
I. No plant is a fruit.
II. No seed is a fruit.
III. All plants are fruits.
A) Only conclusion II follows
B) Both conclusions I and II follow
C) Only conclusion I follows
D) Both conclusions II and III follow
E) None of the above

Adda247 GET IT ON Google Play

43. निर्णय लेने की प्रक्रिया में पहला कदम क्या है ?

A) प्रासंगिक जानकारी एकत्र करें

B) वैकल्पिक विकल्पों की पहचान करें

C) निर्णय/समस्या की पहचान करें

D) अनिश्चितता की पहचान करें

E) उपर्युक्त में से कोई नहीं

What is the first step in the decision-making process ?

A) Collect relevant information

B) Identify alternative options

C) Identify the decision/problem

D) Identify the uncertainty

E) None of the above

44. शृंखला में अगली संख्या खोजें :

3, 15, 35, 63, 99, ?

A) 153 B) 147

C) 155 D) 143

E) उपर्युक्त में से कोई नहीं

Find the next number in the series :
3, 15, 35, 63, 99, ?

A) 153 B) 147

C) 155 D) 143

E) None of the above

45. यदि N = 14 और PAN = 31 है, तो PIN = ?

A) 41 B) 40

C) 42 D) 39

E) उपर्युक्त में से कोई नहीं

If N = 14 and PAN = 31, then PIN = ?

A) 41 B) 40

C) 42 D) 39

E) None of the above

46. निम्नलिखित में से कौन-सा संगठन भारत के अंतरिक्ष कार्यक्रमों को चलाता है ?

A) बीएआरसी

B) इसरो

C) एनआईए

D) एनपीसी

E) उपर्युक्त में से कोई नहीं

Which of the following organisations runs India's Space Programmes ?

A) BARC

B) ISRO

C) NIA

D) NPC

E) None of the above

47. यू. एस. बी. (यूनिवर्सल सीरियल बस) उपकरण का प्राथमिक उद्देश्य क्या है ?

A) दस्तावेजों की छपाई

B) बाहरी उपकरणों को जोड़ना और डेटा स्थानांतरित करना

C) इंटरनेट ब्राउज़ करना

D) अक्षर टाइप करना

E) उपर्युक्त में से कोई नहीं

What is the primary purpose of a USB (Universal Serial Bus) device ?

A) Printing Documents

B) To connect external devices and transfer data

C) To browse the Internet

D) Typing letters

E) None of the above

Adda247 GET IT ON Google Play

48. निम्नलिखित नामों से भारत के मुख्य चुनाव आयुक्त (सी.ई.सी.), 2025 की पहचान करें ।

A) सुकुमार सेन

B) टी. एन. शेषन

C) अशोक लवासा

D) ज्ञानेश कुमार

E) उपर्युक्त में से कोई नहीं

Identify India's Chief Election Commissioner (CEC), 2025, from the following names.

A) Sukumar Sen

B) T. N. Seshan

C) Ashok Lavasa

D) Gyanesh Kumar

E) None of the above

49. गंगा नदी कहाँ से निकलती है ?

A) तिब्बत

B) विंध्य पर्वत

C) यमुनोत्री हिमनद

D) गंगोत्री हिमनद

E) उपर्युक्त में से कोई नहीं

Where does the river Ganga originate from ?

A) Tibet

B) Vindhya Mountains

C) Yamunotri Glacier

D) Gangotri Glacier

E) None of the above

50. किस राष्ट्रवादी नेता ने स्वतंत्रता संग्राम के दौरान भारत छोड़ो आंदोलन शुरू किया ?

A) महात्मा गाँधी

B) सरदार पटेल

C) जवाहरलाल नेहरू

D) सरोजिनी नायडू

E) उपर्युक्त में से कोई नहीं

Which nationalist leader launched Quit India Movement during the Freedom Struggle ?

A) Mahatma Gandhi

B) Sardar Patel

C) Jawaharlal Nehru

D) Sarojini Naidu

E) None of the above

51. निम्नलिखित में से किस राज्य में कोयले के समृद्ध भंडार हैं ?

A) अरुणाचल प्रदेश

B) छत्तीसगढ़

C) लद्दाख

D) राजस्थान

E) उपर्युक्त में से कोई नहीं

Which of the following states has rich coal deposits ?

A) Arunachal Pradesh

B) Chhattisgarh

C) Ladakh

D) Rajasthan

E) None of the above

Adda247 GET IT ON Google Play

52. निम्नलिखित प्रकार के कंप्यूटरों को प्रसंस्करण शक्ति में सबसे छोटे से लेकर सबसे बड़े तक व्यवस्थित कीजिए :

a. सूक्ष्म कंप्यूटर

b. लघु कंप्यूटर

c. मेनफ्रेम कंप्यूटर

d. सुपर कंप्यूटर

नीचे दिए गए विकल्पों में से सबसे उपयुक्त उत्तर का चयन कीजिए :

A) a, b, c, d

B) b, d, a, c

C) a, b, d, c

D) b, d, c, a

E) उपर्युक्त में से कोई नहीं

Arrange the following types of computers from smallest to largest in processing power :

a. Micro computers

b. Mini computers

c. Mainframe computers

d. Super computers

Choose the most appropriate answer from the options given below :

A) a, b, c, d

B) b, d, a, c

C) a, b, d, c

D) b, d, c, a

E) None of the above

53. सूची – I को सूची – II के साथ मिलान कीजिए ।

| सूची – I | सूची – II |
|---|---|
| a. माइक्रोसॉफ्ट वर्ड | I. संचालन प्रणाली |
| b. लिनक्स | II. वर्ड प्रोसेसर |
| c. गूगल क्रोम | III. छवि संपादन सॉफ्टवेयर |
| d. फ़ोटोशॉप | IV. वेब ब्राउज़र |

नीचे दिए गए विकल्पों में से सबसे उपयुक्त उत्तर का चयन कीजिए :

A) a – I b – II c – IV d – III

B) a – II b – I c – III d – IV

C) a – I b – II c – III d – IV

D) a – II b – I c – IV d – III

E) उपर्युक्त में से कोई नहीं

Match List – I with List – II.

| List – I | List – II |
|---|---|
| a. Microsoft Word | I. Operating System |
| b. Linux | II. Word Processor |
| c. Google Chrome | III. Image Editing Software |
| d. Photoshop | IV. Web Browser |

Choose the most appropriate answer from the options given below :

A) a – I b – II c – IV d – III

B) a – II b – I c – III d – IV

C) a – I b – II c – III d – IV

D) a – II b – I c – IV d – III

E) None of the above

Adda247 GET IT ON Google Play

54. निम्नलिखित में से किसका व्यापक रूप से घरेलू ईंधन के रूप में उपयोग किया जाता है ?

A) पेट्रोल

B) एलपीजी

C) डीजल

D) गैसोलीन

E) उपर्युक्त में से कोई नहीं

Which of the following is widely used as domestic fuel ?

A) Petrol

B) LPG

C) Diesel

D) Gasoline

E) None of the above

55. भारत का कौन-सा बैंक मुद्रा नोट जारी करता है ?

A) केनरा बैंक

B) बैंक ऑफ बड़ौदा

C) भारतीय स्टेट बैंक

D) भारतीय रिजर्व बैंक

E) उपर्युक्त में से कोई नहीं

Which bank in India issues currency notes ?

A) Canara Bank

B) Bank of Baroda

C) State Bank of India

D) Reserve Bank of India

E) None of the above

56. भारत ने 2025 में किस देश से राफेल-एम लड़ाकू विमान खरीदे हैं ?

A) जर्मनी

B) यूनाइटेड किंगडम

C) यू एस ए

D) इटली

E) उपर्युक्त में से कोई नहीं

From which country has India purchased Rafale - M fighter jet planes in 2025 ?

A) Germany

B) United Kingdom

C) USA

D) Italy

E) None of the above

57. शरीर का कौन-सा अंग पूरे शरीर में रक्त पंप करता है ?

A) हृदय

B) पित्ताशय

C) यकृत

D) गुर्दे

E) उपर्युक्त में से कोई नहीं

Which organ of the body pumps blood throughout the body ?

A) Heart

B) Gallbladder

C) Liver

D) Kidney

E) None of the above

Adda247 GET IT ON Google Play

58. 1919 में, ब्रिटिश भारत में हिंसक जलियांवाला बाग नरसंहार कहाँ हुआ था ?

A) सूरत, गुजरात

B) अमृतसर, पंजाब

C) कलकत्ता, पश्चिम बंगाल

D) चौरी चौरा, उत्तर प्रदेश

E) उपर्युक्त में से कोई नहीं

In 1919, where did the violent Jallianwala Bagh Massacre take place in British India ?

A) Surat, Gujarat

B) Amritsar, Punjab

C) Calcutta, West Bengal

D) Chauri Chaura, Uttar Pradesh

E) None of the above

59. भारत की अर्थव्यवस्था का कौन-सा क्षेत्र देश के अधिकांश लोगों को रोजगार देता है ?

A) उद्योग

B) सेवा

C) कृषि

D) सेना

E) उपर्युक्त में से कोई नहीं

Which sector of India's economy employs most of the people in the country ?

A) Industry

B) Service

C) Agriculture

D) Army

E) None of the above

60. निम्नलिखित में से किस राष्ट्रीय स्वतंत्रता आंदोलन को नमक सत्याग्रह के रूप में जाना जाता है ?

A) सविनय अवज्ञा आंदोलन

B) असहयोग आंदोलन

C) भारत छोड़ो आंदोलन

D) खिलाफत आंदोलन

E) उपर्युक्त में से कोई नहीं

Which of the following national freedom movements is known as Salt Satyagraha ?

A) Civil Disobedience Movement

B) Non-Cooperation Movement

C) Quit India Movement

D) Khilafat Movement

E) None of the above

61. राजस्थान में पोखरण भारत की किस उपलब्धि के लिए प्रसिद्ध है ?

A) हरित क्रांति के लिए

B) चंद्रयान के प्रक्षेपण के लिए

C) परमाणु बम के सफल परीक्षण के लिए

D) मंगलयान भेजने के लिए

E) उपर्युक्त में से कोई नहीं

Pokhran in Rajasthan is famous for which achievement of India ?

A) For Green Revolution

B) For launching Chandrayaan

C) For successful Atomic Bomb testing

D) For sending Mangalyaan

E) None of the above

Adda247 GET IT ON Google Play

62. 1969 में शुरू हुए किस कंप्यूटर नेटवर्क को आज के इंटरनेट के पहले संस्करण के रूप में जाना जाता है ?

A) वाई-फाई

B) एआरपीएएनईटी

C) ईथरनेट

D) इंट्रानेट

E) उपर्युक्त में से कोई नहीं

Which computer network started in 1969 is known as the first version of today's Internet ?

A) Wi-Fi

B) ARPANET

C) Ethernet

D) Intranet

E) None of the above

63. ब्रिटिश भारत में स्वदेशी आंदोलन, 1905-08 के दौरान मातृभूमि को समर्पित कौन-सा गीत लोकप्रिय हुआ ?

A) सारे जहाँ से अच्छा

B) खुब लड़ी मर्दानी

C) वंदे मातरम

D) पगड़ी संभाल ओ जट्टा

E) उपर्युक्त में से कोई नहीं

Which song dedicated to the Motherland, became popular during the Swadeshi Movement, 1905-08 in British India ?

A) Sare Jahan Se Achcha

B) Khoob Ladi Mardani

C) Vande Mataram

D) Pagri Sambhal O Jatta

E) None of the above

64. कंप्यूटर का जनक किसे कहा जाता है ?

A) बिल गेट्स

B) डोनाल्ड ट्रम्प

C) अलेक्जेंडर ग्राहम बेल

D) चार्ल्स बैबेज

E) उपर्युक्त में से कोई नहीं

Who is known as the father of computers?

A) Bill Gates

B) Donald Trump

C) Alexander Graham Bell

D) Charles Babbage

E) None of the above

65. 2020 में दुनिया में फैली महामारी की पहचान कीजिए ।

A) आम फ्लू

B) दिल का दौरा

C) इबोला

D) कोविड-19

E) उपर्युक्त में से कोई नहीं

Identify the Pandemic that spread in the wo in 2020.

A) Common Flu

B) Heart Attack

C) Ebola

D) Covid-19

E) None of the above

Adda247 GET IT ON Google Play

66. निम्नलिखित में से कौन-सा संरचित डेटा का एक उदाहरण है ?

A) वीडियो

B) इमेज

C) ईमेल

D) एक्सेल

E) उपर्युक्त में से कोई नहीं

Which of the following is an example of structured data ?

A) Video

B) Image

C) Email

D) Excel

E) None of the above

67. सोशल नेटवर्किंग प्लेटफॉर्म का प्राथमिक उद्देश्य क्या है ?

A) लोगों को जोड़ने और उन्हें संदेश, फोटो और अपडेट साझा करने में सक्षम बनाना

B) इंटरनेट कनेक्शन की गति बढ़ाना

C) कंप्यूटर पर सॉफ्टवेयर स्थापित करना

D) मोबाइल फोन से वायरस हटाना

E) उपर्युक्त में से कोई नहीं

What is the primary purpose of social networking platforms ?

A) To connect people and enable them to share messages, photos and updates

B) To increase the speed of the internet connection

C) Installing software on computers

D) Removing Viruses from Mobile Phones

E) None of the above

68. निम्नलिखित में से कौन-सा एक लोकप्रिय एआई-आधारित आवाज सहायक है ?

A) सिरी

B) मीडिया प्लेयर

C) एडोब

D) स्पीकर

E) उपर्युक्त में से कोई नहीं

Which of the following is a popular AI-based voice assistant ?

A) Siri

B) Media Player

C) Adobe

D) Speaker

E) None of the above

69. निम्नलिखित में से कौन-सा उपकरण आपको इंटरनेट पर वेबसाइट खोलने और देखने की अनुमति देता है ?

A) वेब ब्राउज़र

B) वर्ड प्रोसेसर

C) प्रिंटर

D) स्प्रेडशीट सॉफ्टवेयर

E) उपर्युक्त में से कोई नहीं

Which of the following tools allows you to open and view websites on the Internet ?

A) Web Browser

B) Word Processor

C) Printer

D) Spreadsheet Software

E) None of the above

Adda247 GET IT ON Google Play

70. निम्नलिखित में से कौन-सा एक सही ईमेल पता है ?

A) abc@com
B) abc#.com
C) abc@gmail
D) abc$com
E) उपर्युक्त में से कोई नहीं

Which of the following is a correct email address ?

A) abc@com
B) abc#.com
C) abc@gmail
D) abc$com
E) None of the above

71. बिग डेटा आमतौर पर कहाँ संग्रहीत किया जाता है ?

A) एक दीवार घड़ी
B) एक छोटी डायरी
C) एक टीवी रिमोट
D) एक सामान्य गणक
E) उपर्युक्त में से कोई नहीं

Where is Big Data usually stored ?

A) A wall clock
B) A small diary
C) A TV remote
D) A normal calculator
E) None of the above

72. इंटरनेट निम्नलिखित का एक नेटवर्क है

A) केवल प्रिंटर
B) विश्व स्तर पर जुड़े कम्प्यूटर्स
C) केवल मोबाइल फोन
D) प्रिंटर से जुड़े कम्प्यूटर्स
E) उपर्युक्त में से कोई नहीं

The Internet is a network of

A) Only printers
B) Globally connected computers
C) Only mobile phones
D) Computers connected to printers
E) None of the above

73. सूची – I के साथ सूची – II का मिलान करें।

| सूची – I | सूची – II |
|---|---|
| a. एमएस वर्ड | I. ऑपरेटिंग सिस्टम |
| b. विंडोज | II. स्प्रेडशीट सॉफ्टवेयर |
| c. एमएस एक्सेल | III. प्रेज़ेंटेशन सॉफ्टवेयर |
| d. एमएस पावरप्वाइंट | IV. वर्ड प्रोसेसिंग सॉफ्टवेयर |

नीचे दिए गए विकल्पों में से सबसे उपयुक्त उत्तर चुनें।

A) a – IV b – I c – II d – III
B) a – I b – IV c – II d – III
C) a – IV b – I c – III d – II
D) a – III b – IV c – I d – II
E) उपर्युक्त में से कोई नहीं

Match List – I with List – II.

| List – I | List – II |
|---|---|
| a. MS Word | I. Operating System |
| b. Windows | II. Spreadsheet Software |
| c. MS Excel | III. Presentation Software |
| d. MS PowerPoint | IV. Word Processing Software |

Choose the most appropriate answer from the options given below.

A) a – IV b – I c – II d – III
B) a – I b – IV c – II d – III
C) a – IV b – I c – III d – II
D) a – III b – IV c – I d – II
E) None of the above

Adda247 GET IT ON Google Play

निम्नलिखित में से कौन-सा डिजिटल उपकरण राजमार्गों पर बिना रुके स्वचालित टोल भुगतान की अनुमति देता है ?

A) नकद

B) चेक

C) फास्टैग

D) डिमांड ड्राफ्ट

E) उपर्युक्त में से कोई नहीं

Which of the following digital tools allows automatic toll payment on highways without stopping ?

A) Cash

B) Cheque

C) FASTag

D) Demand Draft

E) None of the above

मानचित्र और पोस्टर जैसे बड़े चित्रों को छापने के लिए किस हार्डवेयर उपकरण का उपयोग किया जाता है ?

A) पॉइंटर

B) प्लॉटर

C) मॉनीटर

D) प्रोजेक्टर

E) उपर्युक्त में से कोई नहीं

Which hardware device is used to print large drawings, such as maps and posters ?

A) Pointer

B) Plotter

C) Monitor

D) Projector

E) None of the above

76. सूची – I के साथ सूची – II का मिलान करें ।

| सूची – I | सूची – II |
|---|---|
| a. आईओटी (IoT) | I. डेटा की बहुत बड़ी मात्रा |
| b. बिग डेटा | II. ऐसी मशीनें जो मनुष्यों की तरह सोचती हैं और कार्य करती हैं |
| c. डीप लर्निंग | III. ऑनलाइन जुड़े और संचार करने वाले उपकरण |
| d. आर्टिफिशियल इंटेलिजेंस | IV. तंत्रिका तंत्र की कई परतों का उपयोग करके सीखना |

नीचे दिए गए विकल्पों में से सबसे उपयुक्त उत्तर चुनें ।

A) a – III b – I c – II d – IV

B) a – I b – III c – IV d – II

C) a – III b – I c – IV d – II

D) a – I b – III c – II d – IV

E) उपर्युक्त में से कोई नहीं

Match List – I with List – II.

| List – I | List – II |
|---|---|
| a. IoT | I. Very large amount of data |
| b. Big Data | II. Machines that think and act like humans |
| c. Deep Learning | III. Devices connected and communicating online |
| d. Artificial Intelligence | IV. Learning using many layers of neural networks |

Choose the most appropriate answer from the options given below.

A) a – III b – I c – II d – IV

B) a – I b – III c – IV d – II

C) a – III b – I c – IV d – II

D) a – I b – III c – II d – IV

E) None of the above

Adda247 GET IT ON Google Play

77. वित्तीय लेन-देन के लिए आधार से कौन-सा डिजिटल वित्तीय उपकरण जुड़ा हुआ है ?

A) यूपीआई

B) नकद

C) पैन कार्ड

D) मतदाता पहचान पत्र

E) उपर्युक्त में से कोई नहीं

Which digital financial tool is linked to Aadhaar for financial transactions ?

A) UPI

B) Cash

C) PAN Card

D) Voter ID

E) None of the above

78. ई-गवर्नेंस क्या है ?

A) सरकारी सेवाएँ प्रदान करने के लिए इंटरनेट का उपयोग करना

B) कार्यालय वातावरण के लिए रोबोट डिज़ाइन करना

C) खेल खेलने के लिए कंप्यूटर का उपयोग करना

D) नए सरकारी भवनों का निर्माण

E) उपर्युक्त में से कोई नहीं

What is e-Governance ?

A) Using the Internet to Provide Government Services

B) Designing Robots for Office Environments

C) Using Computers for Playing Games

D) Construction of New Government Buildings

E) None of the above

79. निम्नलिखित में से कौन-सा आर्टिफिशियल इंटेलिजेंस (एआई) का एक उदाहरण है ?

A) गूगल क्रोम

B) चैटजीपीटी

C) माइक्रोसॉफ्ट वर्ड

D) वीएलसी मीडिया प्लेयर

E) उपर्युक्त में से कोई नहीं

Which of the following is an example of Artificial Intelligence (AI) ?

A) Google Chrome

B) ChatGPT

C) Microsoft Word

D) VLC Media Player

E) None of the above

80. निम्नलिखित में से कौन-सा डिजिटल वॉलेट है ?

A) बैंक पासबुक

B) कैश काउंटर

C) एटीएम मशीन

D) पेटीएम

E) उपर्युक्त में से कोई नहीं

Which of the following is a digital wallet ?

A) Bank Passbook

B) Cash Counter

C) ATM machine

D) Paytm

E) None of the above

Adda247 GET IT ON Google Play

81. निम्नलिखित में से किस नदी को "गोरखपुर का शोक" कहा जाता है ?

A) राप्ती
B) घाघरा
C) गंगा
D) यमुना
E) उपर्युक्त में से कोई नहीं

Which of the following rivers is called the "Sorrow of Gorakhpur" ?

A) Rapti
B) Ghaghara
C) Ganga
D) Yamuna
E) None of the above

उत्तर प्रदेश के निम्नलिखित में से किस जिले में कैमूर वन्यजीव अभयारण्य स्थित है ?

A) सोनभद्र
B) लखीमपुर खीरी
C) बहराईच
D) बिजनौर
E) उपर्युक्त में से कोई नहीं

Kaimur Wildlife Sanctuary is located in which of the following districts of Uttar Pradesh ?

A) Sonbhadra
B) Lakhimpur Kheri
C) Bahraich
D) Bijnor
E) None of the above

1527 में खानवा के युद्ध में बाबर ने मेवाड़ के किस शासक को हराया ?

A) मेवाड़ के अमरसिंह
B) मेवाड़ के राणा सांगा
C) मेवाड़ के उदयसिंह
D) मेवाड़ के राणा कुंभा
E) उपर्युक्त में से कोई नहीं

Which ruler of Mewar was defeated by Babur in the Battle of Khanwa in 1527 ?

A) Amar Singh of Mewar
B) Rana Sanga of Mewar
C) Udai Singh of Mewar
D) Rana Kumbha of Mewar
E) None of the above

84. काशी तमिल संगमम (केटीएस) 3.0 उत्तर प्रदेश के किस शहर में 15 फरवरी से 24 फरवरी 2025 के बीच आयोजित किया गया ?

A) वाराणसी
B) अयोध्या
C) प्रयागराज
D) लखनऊ
E) उपर्युक्त में से कोई नहीं

The Kashi Tamil Sangamam (KTS) 3.0 was held from February 15 to 24, 2025, in which city of Uttar Pradesh ?

A) Varanasi
B) Ayodhya
C) Prayagraj
D) Lucknow
E) None of the above

85. निम्नलिखित में से उत्तर प्रदेश के कौन-से हवाईपत्तन और उनकी अवस्थिति सही सुमेलित नहीं है ?

A) चकेरी हवाईपत्तन – कानपुर
B) कल्याणपुर अंतर्राष्ट्रीय हवाईपत्तन – अलीगढ़
C) बमरौली हवाईपत्तन – प्रयागराज
D) हिंडन हवाईपत्तन – गाजियाबाद
E) उपर्युक्त में से कोई नहीं

Which of the following airports of Uttar Pradesh and their locations is not correctly matched ?

A) Chakeri Airport – Kanpur
B) Kalyanpur International Airport – Aligarh
C) Bamrauli Airport – Prayagraj
D) Hindon Airport – Ghaziabad
E) None of the above

Adda247 GET IT ON Google Play

86. उत्तर प्रदेश की निम्न गंगा नहर के संबंध में निम्नलिखित कथनों पर विचार करिए ।

1. यह नहर 1878 में बनाई गई थी ।
2. यह बुलंदशहर जिले में नरोरा से गंगा से निकलती है ।
3. यह तमसा नदी पर बनाया गया है ।

निम्नलिखित में से कौन-सा सही हैं ?

A) केवल 2 सही है
B) 1 और 2 दोनों सही हैं
C) केवल 1 सही है
D) 1 और 3 दोनों सही हैं
E) उपर्युक्त में से कोई नहीं

Consider the following statements regarding the Lower Ganga Canal of Uttar Pradesh.

1. The Canal was constructed in 1878.
2. It originates from the Ganga at Narora in Bulandshahr district.
3. It was constructed on Tamsa river.

Which of the following is/are correct ?

A) Only 2 is correct
B) Both 1 and 2 are correct
C) Only 1 is correct
D) Both 1 and 3 are correct
E) None of the above

87. वर्ष 2025–26 के लिए उत्तर प्रदेश का बजट कितना है ?

A) रु. 8,08,736.06 करोड़
B) रु. 8,08,376.06 करोड़
C) रु. 8,08,136.06 करोड़
D) रु. 8,08,763.06 करोड़
E) उपर्युक्त में से कोई नहीं

What is the size of the Uttar Pradesh Budget for the year 2025–26 ?

A) Rs. 8,08,736.06 crore
B) Rs. 8,08,376.06 crore
C) Rs. 8,08,136.06 crore
D) Rs. 8,08,763.06 crore
E) None of the above

88. निम्नलिखित में से कौन-से पठार उत्तर प्रदेश के दक्षिण अग्रभाग को बनाते हैं ?

A) मालवा का पठार
B) बुंदेलखंड और बघेलखंड का पठार
C) दक्कन का पठार
D) छोटा नागपुर का पठार
E) उपर्युक्त में से कोई नहीं

Which of the following plateaus form the southern frontier of Uttar Pradesh ?

A) Malwa Plateau
B) Bundelkhand and Baghelkhand Plateaus
C) Deccan Plateau
D) Chota Nagpur Plateau
E) None of the above

89. निम्नलिखित में से कौन-सा कथन टाइगर क्लॉ 202 अभ्यास के बारे में सत्य है ?

A) इसका गरुड़ रेजिमेंटल प्रशिक्षण केंद्र, उत्तर प्रदेश में समापन किया गया
B) उत्तर प्रदेश में केंद्रीय मैदान, मेरठ में समापन किया गया
C) इसका उत्तर प्रदेश में सेना प्रशिक्षण केंद्र बांदा में समापन किया गया
D) इसका राष्ट्रीय अकादमी, नोएड़ा, उत्तर प्रदेश में समापन किया गया
E) उपर्युक्त में से कोई नहीं

Which of the following statements is correc about exercise Tiger Claw 2025 ?

A) It was concluded at the Garud Regimen Training Center in Uttar Pradesh
B) It was concluded at the Central Ground Meerut in Uttar Pradesh
C) It was concluded at the Army Training Center Banda in Uttar Pradesh
D) It was concluded at the National Acade Noida in Uttar Pradesh
E) None of the above

Adda247 GET IT ON Google Play

90. निम्नलिखित में से कौन-सा महाजनपद-राजधानी युग्म सुमेलित नहीं हैं ?

A) अंग – चम्पा

B) चेदी – शुक्तिमती

C) वत्स – कौशांबी

D) अस्मक – विराट

E) उपर्युक्त में से कोई नहीं

Which of the following Mahajanapad–Capital pairs is not rightly matched ?

A) Ang – Champa

B) Chedi – Shuktimati

C) Vats – Kaushambi

D) Asmak – Virat

E) None of the above

91. किस युद्ध में बाबर ने बंगाल और बिहार की संयुक्त सेनाओं को हराया ?

A) खानवा का युद्ध (1527)

B) चंदेरी का युद्ध (1528)

C) पानीपत का युद्ध (1526)

D) घाघरा का युद्ध (1529)

E) उपर्युक्त में से कोई नहीं

In which battle did Babur defeat the joint forces of Bengal and Bihar ?

A) Battle of Khanwa (1527)

B) Battle of Chanderi (1528)

C) Battle of Panipat (1526)

D) Battle of Ghaghara (1529)

E) None of the above

92. GNIDA का पूर्ण रूप क्या है ?

A) गाजियाबाद नगर इंडस्ट्रियल डिवेलपमेंट ऑथोरिटी

B) ग्रेटर नोएडा इंडस्ट्रियल डिवेलपमेंट ऑथोरिटी

C) गौतम बुद्ध नगर इंडस्ट्रियल डिवेलपमेंट ऑथोरिटी

D) गौतम नगर इनवेस्टमेंट डिवेलपमेंट ऑथोरिटी

E) उपर्युक्त में से कोई नहीं

What does GNIDA stands for ?

A) Ghaziabad Nagar Industrial Development Authority

B) Greater Noida Industrial Development Authority

C) Gautam Buddha Nagar Industrial Development Authority

D) Gautam Nagar Investment Development Authority

E) None of the above

93. आर्कियन चट्टान, उत्तर प्रदेश में प्राचीनतम भौगोलिक संरचनाएँ, मुख्यत: किस जिलों में पाई जाती हैं ?

A) सोनभद्र और ललितपुर

B) महोबा और हमीरपुर

C) बाँदा और बरेली

D) चंदौली और कौशंबी

E) उपर्युक्त में से कोई नहीं

Archaean rocks, the oldest geological structures in Uttar Pradesh, are mainly found in which districts ?

A) Sonbhadra and Lalitpur

B) Mahoba and Hamirpur

C) Banda and Bareilly

D) Chandauli and Kaushambi

E) None of the above

Adda247 GET IT ON Google Play

94. उत्तर प्रदेश सरकार ने किस तिथि को "उत्तर प्रदेश पर्यटन नीति 2022" अनुमोदित की ?

A) 16 नवंबर, 2022

B) 1 दिसंबर, 2022

C) 10 अक्टूबर, 2022

D) 25 अगस्त, 2022

E) उपर्युक्त में से कोई नहीं

The Uttar Pradesh Government approved the "Uttar Pradesh Tourism Policy 2022" on which date ?

A) 16th November, 2022

B) 1st December, 2022

C) 10th October, 2022

D) 25th August, 2022

E) None of the above

95. निम्नलिखित में से कौन-सा व्यक्ति वाराणसी, उत्तर प्रदेश से एक प्रसिद्ध भारतीय हॉकी खिलाडी हैं ?

A) ललित उपाध्याय

B) बीरेंद्र लाकरा

C) मनप्रीत सिंह

D) हरमनप्रीत सिंह

E) उपर्युक्त में से कोई नहीं

Which of the following person is an Indian veteran hockey player from Varanasi, Uttar Pradesh ?

A) Lalit Upadhyay

B) Birendra Lakra

C) Manpreet Singh

D) Harmanpreet Singh

E) None of the above

96. मगध में शुंग वंश को किस वंश ने प्रतिस्थापित किया ?

A) नंद वंश

B) कुषाण वंश

C) कण्व वंश

D) मौर्य वंश

E) उपर्युक्त में से कोई नहीं

The Shung dynasty was replaced by which dynasty in Magadh ?

A) The Nand dynasty

B) The Kushan dynasty

C) The Kanva dynasty

D) The Mauryan dynasty

E) None of the above

97. 2024 में शुरू ऑपरेशन द्रोणगिरी जो भूअंतरिक्ष तकनीक नवाचार को बढ़ाने के लिए शुरू किया गया, निम्नलिखित में से किन राज्यों में कार्यान्वित किया गया है ?

A) गुजरात, राजास्थान, पंजाब, केरल, तमिलनाडू

B) बिहार, झारखंड, ओडिशा, तेलंगाना, सिक्किम

C) उत्तर प्रदेश, हरियाणा, असम, आंध्र प्रदेश, महा

D) सिक्किम, नागालैंड, मणिपुर, मिजोरम, त्रिपुरा

E) उपर्युक्त में से कोई नहीं

Operation Dronagiri, launched in 2024 to promote driving innovation in geospatial technology, has been implemented in which the following States ?

A) Gujarat, Rajasthan, Punjab, Kerala, Tamil Nadu

B) Bihar, Jharkhand, Odisha, Telangana, Sikkim

C) Uttar Pradesh, Haryana, Assam, Andhra Pradesh, Maharashtra

D) Sikkim, Nagaland, Manipur, Mizoram, Tripura

E) None of the above

Adda247 GET IT ON Google Play

98. भारत के मानक समय (IST) के संबंध में निम्नलिखित कथनों पर विचार करें ।

1. IST की 82.5° पूर्वी देशांतर के आधार पर गणना की जाती है ।
2. 82.5° पूर्वी देशांतर उत्तर प्रदेश में मिर्ज़ापुर से होकर गुजरती है ।
3. 82.5° पूर्वी देशांतर उत्तर प्रदेश में उन्नाव से होकर गुजरता है ।

निम्नलिखित में से कौन-सा सत्य है ?

A) केवल 2 सत्य है
B) 1 और 2 दोनों सत्य हैं
C) केवल 1 सत्य है
D) 1 और 3 दोनों सत्य हैं
E) उपर्युक्त में से कोई नहीं

Consider the following statements regarding Indian Standard Time (IST).

1. IST is calculated based on 82.5° east longitude.
2. 82.5° east longitude passes through Mirzapur of Uttar Pradesh.
3. 82.5° east longitude passes through Unnao of Uttar Pradesh.

Which of the following is correct ?

A) Only 2 is correct
B) Both 1 and 2 are correct
C) Only 1 is correct
D) Both 1 and 3 are correct
E) None of the above

99. छोटा इमामबाड़ा और रूमी दरवाजा उत्तर प्रदेश के किस जिले में स्थित हैं ?

A) लखनऊ
B) वाराणसी
C) आगरा
D) प्रयागराज
E) उपर्युक्त में से कोई नहीं

Chota Imambara and Roomi Darwaza are located in which district of Uttar Pradesh ?

A) Lucknow
B) Varanasi
C) Agra
D) Prayagraj
E) None of the above

100. निम्नलिखित में से कौन-से जिले उत्तर प्रदेश के आजमगढ़ डिवीजन में आते हैं ?

A) बाराबंकी, बस्ती
B) मऊ, बलिया
C) फिरोजाबाद, मथुरा
D) बागपत, गाजियाबाद
E) उपर्युक्त में से कोई नहीं

Which of the following districts belong to Azamgarh Division of Uttar Pradesh ?

A) Barabanki, Basti
B) Mau, Ballia
C) Firozabad, Mathura
D) Baghpat, Ghaziabad
E) None of the above